© Hatier 2017 - Reproduction autorisée pour une classe seulement.

Des nombres sur une ligne graduée

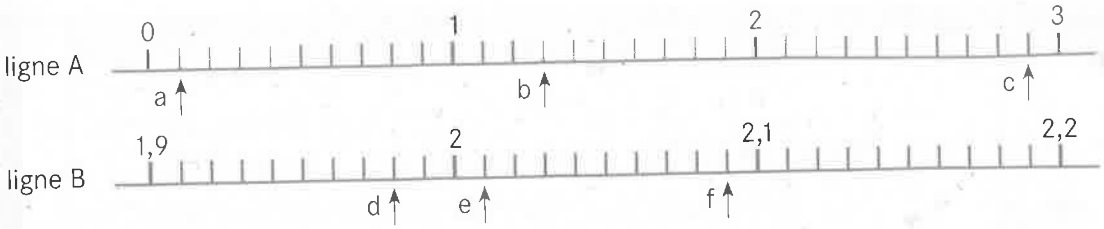

A Place chaque nombre en face du bon repère sur la ligne graduée qui convient.

2,7 1,5 1,95 2,03 2,3 2,15 2,20

B Écris les nombres décimaux qui correspondent aux repères a, b, c, d, e et f. Utilise une écriture à virgule.

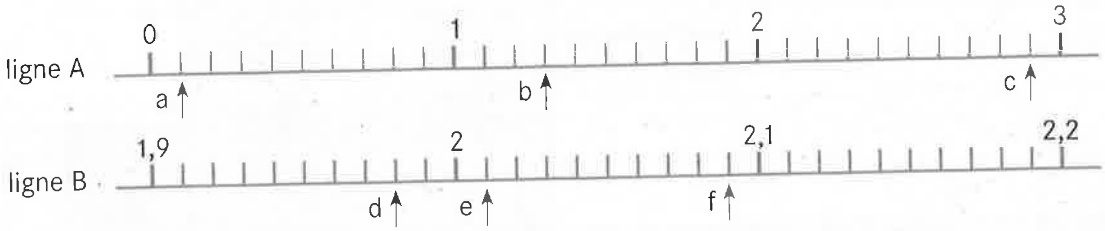

A Place chaque nombre en face du bon repère sur la ligne graduée qui convient.

2,7 1,5 1,95 2,03 2,3 2,15 2,20

B Écris les nombres décimaux qui correspondent aux repères a, b, c, d, e et f. Utilise une écriture à virgule.

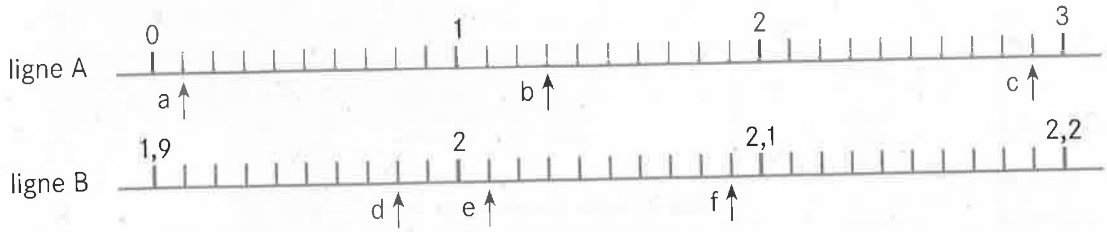

A Place chaque nombre en face du bon repère sur la ligne graduée qui convient.

2,7 1,5 1,95 2,03 2,3 2,15 2,20

B Écris les nombres décimaux qui correspondent aux repères a, b, c, d, e et f. Utilise une écriture à virgule.